Optische Täuschungen 3

1. Betrachte in Ruhe ein Bild nach dem anderen und beantworte die Fragen dazu.

2. Gehe **danach** alle Bilder nochmals durch und überprüfe mit dem Massstab, ob deine Wahrnehmungen richtig waren. Wo hat sich dein Auge täuschen lassen? Kannst du dir vorstellen, warum?



Wie stehen die langen Linien zueinander?

_____

_____

_____

_____

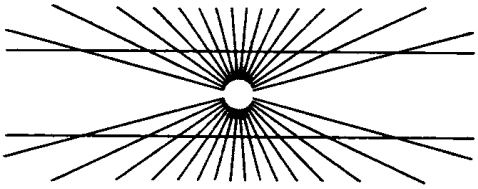

Beschreibe, was du siehst.

_____

_____

_____

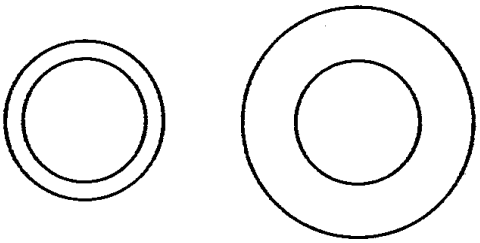

Sind die inneren Kreise gleich gross?

_____

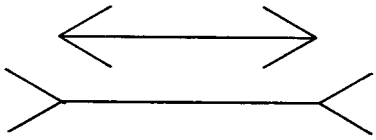

Welche der beiden waagrechten Linien ist länger?

_____

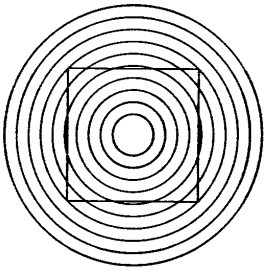

Beschreibe, was du siehst.

_____

_____

_____